WOS_8a_11-15.05 Alicja Jakimiec

I. Zagadnienie: Sprawdzian wiadomości z działu:Ustrój RP.

Utrwalisz wiedzę na temat podstawowych zasad ustroju RP.

Materiały do zajęć:

Próbny test.

Nie musisz go przesyłać do n-la.

Na jego podstawie przygotuj się do testu.

Ustawa z dnia 11 lutego 2016 r. o pomocy państwa w wychowywaniu dzieci (fragment)
Art. 1.1. Ustawa określa warunki nabywania prawa do świadczenia wychowawczego oraz zasady przyznawania i wypłacania tego świadczenia. […]
Art. 4.1. Celem świadczenia wychowawczego jest częściowe pokrycie wydatków związanych z wychowywaniem dziecka, w tym z opieką nad nim i zaspokojeniem jego potrzeb życiowych.

Źródło: http://prawo.sejm.gov.pl.

Przytoczone przepisy są przykładem realizowania przez państwo funkcji
A. socjalnej.
B. porządkowej.
C. gospodarczej.
D. administracyjnej.

Zapoznaj się ze schematem i zaznacz właściwe dokończenia podanych zdań. 0–2 p.

Proces ustawodawczy

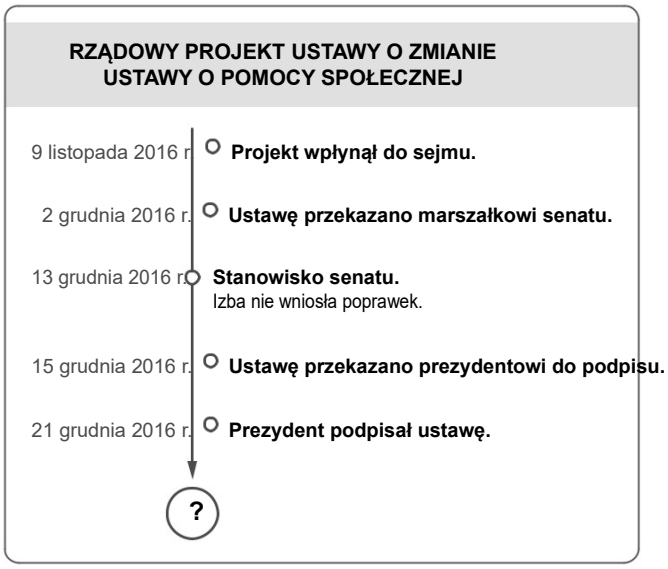

2.1. W pracach nad wskazaną ustawą inicjatywa ustawodawcza należała do
A. prezydenta.
B. Rady Ministrów.
C. grupy posłów.
D. senatu.

2.2. Etapem procesu ustawodawczego oznaczonym na schemacie znakiem *?* jest A. skierowanie ustawy do Trybunału Konstytucyjnego. B. przeprowadzenie referendum zatwierdzającego ustawę.

C. przekazanie ustawy sejmowi do ponownego rozpatrzenia.

D. ogłoszenie ustawy w Dzienniku Ustaw.

Zapoznaj się z zamieszczonymi informacjami i zaznacz właściwe dokończenie zdania. **0–1 p.**

1. W 2003 r. obywatele polscy w referendum ogólnokrajowym wypowiedzieli się w sprawie wstąpienia Polski do Unii Europejskiej.
2. W 2010 r. Rada Gminy Dzierżoniów podjęła decyzję o dofinansowaniu zielonych szkół.
3. W 2014 r. wybrano w Polsce wójtów, burmistrzów i prezydentów miast.
4. W 2015 r. sejm uchwalił ustawę *Prawo o zgromadzeniach*.

Działania typowego dla demokracji bezpośredniej dotyczy zdanie oznaczone cyfrą

A. 1.
B. 2.
C. 3.
D. 4.

Uporządkuj podane akty prawne zgodnie z hierarchią ich ważności. Odpowiadające im litery wpisz we właściwe kratki. Najwyżej umieść najważniejszy dokument. **0–1 p.**

A. Rozporządzenie Prezesa Rady Ministrów
B. Ratyfikowana umowa międzynarodowa
C. *Konstytucja Rzeczypospolitej Polskiej*

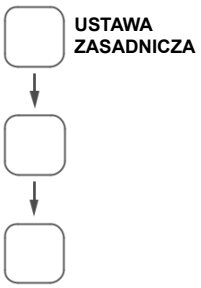

Do każdej zasady ustrojowej przyporządkuj odpowiedni zapis z *Konstytucji RP*. Wybierz go spośród fragmentów oznaczonych literami A–D. W każdym wierszu tabeli zaznacz właściwą literę. **0–1 p.**

1.	Zasada suwerenności narodu	A	B	C	D
2.	Zasada pluralizmu politycznego	A	B	C	D

A. *Konstytucja jest najwyższym prawem Rzeczypospolitej Polskiej.*
B. *Władza zwierzchnia w Rzeczypospolitej Polskiej należy do Narodu.*
C. *Organy władzy publicznej działają na podstawie i w granicach prawa.*
D. *Rzeczpospolita Polska zapewnia wolność tworzenia i działania partii politycznych.*

Przeczytaj tekst i wykonaj polecenia. **0–2 p.**

***Konstytucja Rzeczypospolitej Polskiej* (fragment)**

Art. 125

1. W sprawach o szczególnym znaczeniu dla państwa może być przeprowadzone referendum ogólnokrajowe.
2. Referendum ogólnokrajowe ma prawo zarządzić Sejm bezwzględną większością głosów w obecności co najmniej połowy ustawowej liczby posłów lub Prezydent Rzeczypospolitej za zgodą Senatu wyrażoną bezwzględną więk-szością głosów w obecności co najmniej połowy ustawowej liczby senatorów.
3. Jeżeli w referendum ogólnokrajowym wzięło udział więcej niż połowa uprawnionych do głosowania, wynik referendum jest wiążący.
4. Ważność referendum ogólnokrajowego […] stwierdza Sąd Najwyższy.

Rozstrzygnij, czy przedstawiony akt prawny mógł zostać wydany przez wójta gminy. Uzasadnij swoją odpowiedź.

6.1. Podaj nazwę organu władzy wykonawczej, który może zarządzić referendum ogólnokrajowe w Polsce.

Organ władzy wykonawczej: _____

6.2. Określ, ilu – co najmniej – posłów musi wziąć udział w głosowaniu, aby mogła zostać podjęta decyzja o przeprowadzeniu referendum ogólnokrajowego.

Liczba posłów: _____

Podaj nazwę organu władzy, który na schemacie został oznaczony literą A. 0–1 p.

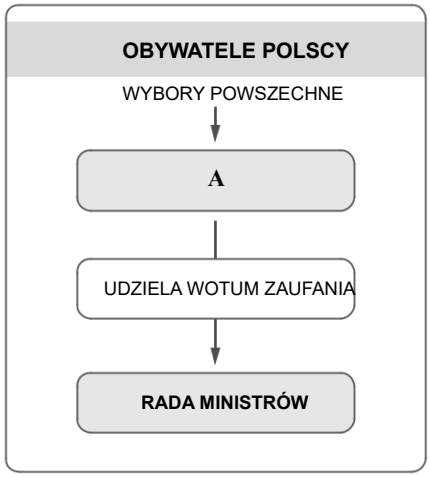

Organ władzy: _____

8. Podaj imię i nazwisko osoby, która pełniła w Polsce urząd prezydenta w okresie wyróżnionym na osi czasu. 0–1 p.



_____

Zapoznaj się z danymi zaprezentowanymi w tabeli i wykonaj polecenie. 0–1 p.

Wybory parlamentarne w 2015 r. – podział mandatów w sejmie

Nazwa komitetu	Liczba mandatów
Komitet Wyborczy Prawo i Sprawiedliwość	235
Komitet Wyborczy Platforma Obywatelska RP	138
Komitet Wyborczy Wyborców „Kukiz 15”	42
Komitet Wyborczy Nowoczesna Ryszarda Petru	28
Komitet Wyborczy Polskie Stronnictwo Ludowe	16
Komitet Wyborczy Wyborców Mniejszość Niemiecka	1

Źródło: http://pkw.gov.pl/.

Wyjaśnij, dlaczego po wyborach parlamentarnych w 2015 r. Prawo i Sprawiedliwość mogło powołać rząd bez konieczności utworzenia koalicji z innym ugrupowaniem.

_____

_____

_____

_____

10 Przeczytaj tekst i zaznacz właściwe dokończenie zdania. **0–1 p.**

> Do jego zadań należy ściganie przestępstw i wnoszenie aktów oskarżenia do sądu.

Stwierdzenie dotyczy obowiązków

A. sędziego.

B. ławnika.

C. adwokata.

D. prokuratora.

11 Zapoznaj się z opisem sytuacji i wykonaj polecenie. **0–2 p.**

> Adam K. został skazany w procesie karnym, który odbył się w sądzie okręgowym. Nie zgodził się z tą decyzją i odwołał się od wyroku.

Uzupełnij zdania właściwymi informacjami.

1. Odwołanie wniesione przez Adama K. rozpatrzy _____ .
   [nazwa właściwego sądu]
2. Przez wniesienie odwołania Adam K. skorzystał z prawa wynikającego z zasady _____ .
   [jedna z zasad działania sądów]

Przeczytaj tekst i zaznacz właściwe dokończenie zdania.

12 **0–1 p.**

> **Korzyści wynikające z przynależności do organizacji**
>
> - Pomoc silnej grupy w razie problemów w pracy.
> - Większa możliwość wynegocjowania lepszych warunków pracy bądź podwyżki.
> - Pomoc w razie dyskryminacji, przemocy, czy też niesprawiedliwego traktowania.
> - Możliwość pomocy innym pracownikom.
> - Możliwość skorzystania z porad ekspertów […], a także prawników.
>
> Źródło: strona internetowa jednej z organizacji.

W tekście wymieniono korzyści wynikające z przynależności do

A. fundacji.

B. stowarzyszenia.

C. partii politycznej.

D. związku zawodowego.

13 Zapoznaj się z podanymi stwierdzeniami i wykonaj polecenie. **0–2 p.**

> A. Współczesnym światem rządzi reklama.
>
> B. Reklamy przybierają różnorodne formy, np. plakatu, filmu, piosenki.
>
> **C. Reklamy są prezentowa**

II. Zagadnienie: Etapy integracji UE.

Poznasz genezę powstania Unii Europejskiej, cele i zadania oraz ojcowie UE.

Materiały do zajęć:

1. Polecam Ci lekcję pod linkami. Na podstawie tych filmów **zrób notatkę**, jak powstawała UE. Możesz też korzystać z podręcznika.

https://www.youtube.com/watch?v=qgQLYflExMc

https://www.youtube.com/watch?v=QZB-_2KP2Y8

Informacja zwrotna do n-la.